Historia

NO IMPRIMIR

Material semana 4 - 4° básico.
Profesoras:
- Mayte Carrasco
- Ana Verónica Maldonado

Colegio Aurora de Chile
Rancagua

¡Iniciemos la clase!

Observa un video en el siguiente link:
https://www.youtube.com/watch?v=KIi6SGs6Crs

Escribir en cuaderno de asignatura

Objetivo:

Localizar subcontinentes de América en el mapa distinguiendo sus relieves geográficos.

Ruta de aprendizaje

Observar video.

Escribir subcontinentes de América.

Leer y comprender características de los subcontinentes de América.

Actividad en el texto escolar.

Leer y comprender tipos de relieves geográficos presentes en América.

Dibujar relieves geográficos en el cuaderno.

Evaluar lo aprendido.

América en el mundo

América es el segundo continente más grande del planeta. Se localiza en el hemisferio occidental, abarcando norte-sur y se encuentra rodeado de océanos: el océano Pacífico, el Atlántico, el Glaciar Ártico y el Austral. Está constituido por tres subcontinentes: América del Norte, América Central y América del Sur. En estos espacios conviven distintos países y sociedades que se han adaptado a diversos tipos de paisajes.

Escribir en cuaderno de asignatura

En América del Norte se encuentran Canadá, Estados Unidos y México.

En América Central están Belice, Guatemala, Honduras, El Salvador, Nicaragua, Costa Rica y Panamá.

En el Caribe están Bermudas, Bahamas, Cuba, Islas Caimán, Islas Turcas y Caicos, Jamaica, Haití, República Dominicana, Puerto Rico, Islas Vírgenes británicas, Islas Vírgenes estadounidenses, Anguila, San Martín, San Cristóbal y Nieves, Antigua y Barbuda, Montserrat, Guadalupe, Dominica, Martinica, Santa Lucía, Barbados, San Vicente y las Granadinas, Granada, Trinidad y Tobago y Antillas holandesas.

En América del Sur se encuentran Colombia, Venezuela, Guyana, Surinam, Guayana Francesa, Ecuador, Brasil, Perú, Bolivia, Paraguay, Chile, Argentina y Uruguay.

Solo leer para conocimiento general

¿Por qué se divide América?

La separación de América en tres subcontinentes se debe a que existen distintos tipos de paisajes. Una de las características de los países que forman este continente es que todos fueron colonias de otros Estados durante un tiempo. ¿Cómo notamos esto? En aspectos culturales como el idioma, las formas de relacionarnos, las comidas y la religión, entre otros.

¿Qué significa?

colonias:

1. Territorios dominados y administrados por una potencia extranjera.
2. Territorios o lugares donde se establecen personas.

¿Cuál de las dos acepciones es la usada en el texto?

Solo leer para conocimiento general

América del Norte

Es una amplia región que se extiende desde el polo norte hasta el inicio del istmo de Centroamérica. Fue colonizada por británicos, franceses y españoles y, por lo tanto, predominan en ella los idiomas inglés, francés y español.

Solo leer para conocimiento general

América Central y el Caribe

América Central es un istmo o una franja angosta de tierra que une América del Norte con América del Sur. Al este del istmo se encuentra el mar Caribe, donde se ubican las islas Antillas, de origen montañoso. En América Central predominó la colonización española, por lo que en la mayoría de estos países se habla español. En el Caribe es posible encontrar otros idiomas, como inglés y francés.

Solo leer para conocimiento general

América del Sur

Se extiende desde el fin del istmo centroamericano, en el norte de Colombia, hasta las islas Diego Ramírez, en el sur de Chile. Fue colonizada por portugueses y españoles y, por tanto, los idiomas predominantes son el portugués, en Brasil, y el español, en países como Argentina, Chile, Colombia y Venezuela, entre otros.

Solo leer para conocimiento general

1) ¿En qué hemisferios se encuentra América?

2) ¿En cuántos subcontinentes se divide América?

3) ¿Cómo se llaman esos subcontinentes?

4) ¿Qué idiomas predominan en América?

5) ¿En qué subcontinente se encuentra Chile?

Después de leer la información, responde las siguientes preguntas de **forma oral**. Si no sabes alguna respuesta, vuelve a leer la información.

Página 83

Texto Escolar

Ubico a América en el mundo

América es un continente de gran extensión territorial y de enorme diversidad natural y cultural. En América se ubica parte importante del territorio chileno.

Este continente está situado en el **hemisferio occidental** y se extiende desde los 83º de latitud norte a los 56º de latitud sur, por lo que su territorio abarca los **hemisferios norte y sur**.

América está formada por dos grandes masas de tierra, unidas por un territorio central, junto al cual, hay un conjunto de islas que rodean el mar Caribe. Considerando sus características físicas, este continente ha sido dividido en tres grandes regiones geográficas: América del Norte, América Central y el Caribe y América del Sur.

Leer

Página 83

Mapa de América

Archivo cartográfico SM.

Realiza la actividad.

1. Pinta las tres regiones en que se divide América con un color diferente para cada una. Luego, completa la simbología del mapa.
2. Señala en qué hemisferios se ubican cada una de estas regiones.

Actividad en el texto escolar

Reflexiona

¿Cómo ayudaron tus conocimientos previos a realizar las actividades?

Recreo Cerebral

Observa el mapa y responde de forma oral.

¿Qué significan todos los colores?

¿Por qué algunos serán mas oscuros que otros?

El mapa que de América que observaste se relaciona con los relieves geográficos.

El **relieve geográfico** determina las formas que tiene la corteza de la tierra, como cordilleras u océanos.

Relieves Geográficos

Los relieves geográficos son un conjunto de irregularidades que presenta la superficie terrestre. Los relieves van cambiando, aunque estos cambios solo se ven en un cierto lapso de tiempo, pues son muy lentos, salvo cuando se producen terremotos o erupciones volcánicas.

Ejemplos: Cordilleras, valles, islas, penínsulas, lagos, entre otros.

Escribir en cuaderno de asignatura

Relieves terrestres de América

Cordillera: Conjunto de montañas alineadas a lo largo de un eje que forman una unidad.

Montaña: Elevación muy grande de tierra.

Llanura: Terreno muy plano, sin grandes elevaciones ni depresiones.

Valle: Terreno alargado de baja altura, que pudo haber sido creado por un río o por un glaciar.

Meseta: Terreno plano que se encuentra en altura. A veces se encuentra inclinada.

Solo leer para conocimiento general

Solo observar

Cordillera

Montaña

Llanura

Meseta



Accidentes Costeros

Cabo: Punta formada por una masa de tierra que se proyecta hacia el interior del mar

Golfo: Gran entrante del mar en la tierra con forma más o menos semicircular entre dos cabos.

Isla: Porción de tierra rodeada de agua por todas partes.

Península: Extensión de tierra rodeada de agua por todas partes salvo por una, por donde está unida a un territorio de mayor tamaño.

Solo leer para conocimiento general

Solo observar

Golfo

Isla

Península

Cabo

Aguas Superficiales

Ríos: Corriente natural de agua que fluye permanentemente y va a desembocar en otra, en un lago o en el mar.

Lagos: Gran depósito natural de agua en una depresión del terreno, que recoge aguas pluviales, subterráneas o de uno o varios ríos.

Solo leer para conocimiento general

Río



Solo observar

Lago

Página 84

Identifico características naturales de América

Participar en conversaciones

- Conversa con una compañera o un compañero: ¿cómo es el lugar donde viven?, ¿cuáles dirían ustedes que son sus principales características naturales? Consideren, por ejemplo, el relieve, las lluvias y las temperaturas?

América es un continente caracterizado por su gran diversidad natural. En su territorio es posible apreciar distintos tipos de **relieves** y **accidentes costeros**, abundancia o escasez de **aguas superficiales**, además de una gran variedad de **climas**, dada su enorme extensión norte-sur. Todo lo anterior posibilita el desarrollo de gran cantidad de especies **animales** y **vegetales**, lo que en su conjunto determina la presencia de una gran **diversidad de paisajes**.

Relieve y accidentes costeros

Las formaciones del relieve más importantes de América son las cordilleras, los macizos, las mesetas y las llanuras. Además, existen extensas costas con accidentes costeros, entre ellos golfos, islas y penínsulas.

Cordillera de Los Andes, la más extensa de América y del mundo.

Aguas superficiales

A lo largo de América, los ríos y los lagos están presentes con diversas características. Existen ríos navegables y caudalosos (gran cantidad de agua) como el Amazonas; lagos a elevadas alturas como el Titicaca entre Perú y Bolivia y también enormes glaciares.

Río Amazonas, el más caudaloso de América y del mundo.

Mapa físico y de aguas superficiales de América

Archivo cartográfico SM.

Leer

1. Observa el mapa físico de América. Luego, realiza la actividad.

- Marca con un ✔ aquellas afirmaciones correctas y con una ✗ las afirmaciones incorrectas.

a. La Cordillera de los Andes se encuentra al este de América del Norte. ☐

b. El Gran Cañón se ubica en la zona norte de América del Sur. ☐

c. América Central es una franja de tierra que une a las otras zonas de América. ☐

d. Los montes Apalaches se ubican en el oeste de América del Norte. ☐

e. La Patagonia se ubica en el extremo sur de América del Sur. ☐

f. Los Llanos del Orinoco se encuentran frente al mar Caribe. ☐

Realiza esta actividad de forma oral.

Observa un video que explica las formas de relieve geográfico en el siguiente link:
https://www.youtube.com/watch?v=O5LcweQDXbM

Luego de leer toda la información, realiza la siguiente actividad:

Considerando las anteriores definiciones y tus conocimientos, realiza un dibujo de un paisaje (en tu cuaderno de asignatura) donde se observen al menos cuatro de estas formas del relieve.

Puedes guiarte con los ejemplos a continuación.

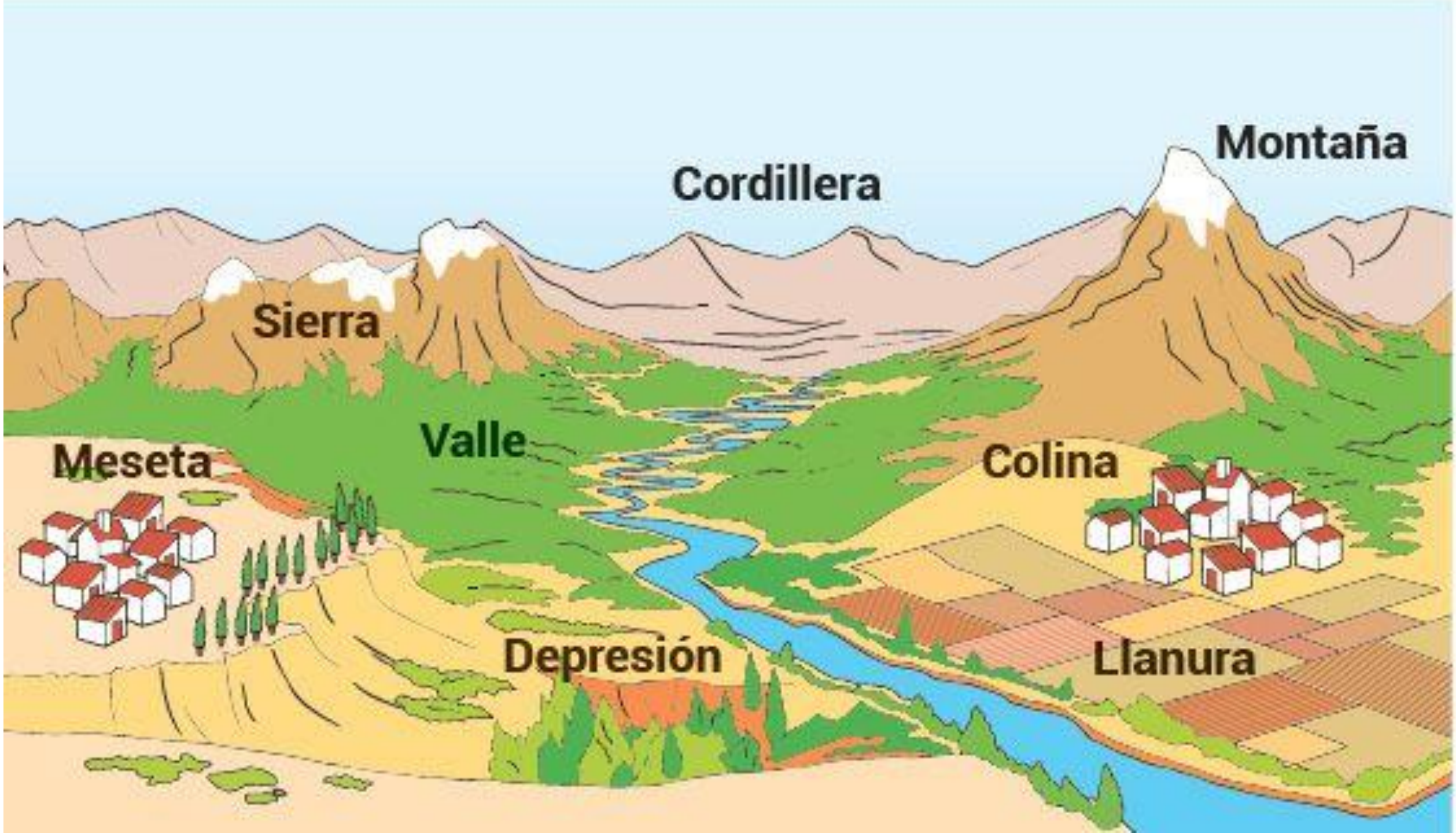
Montaña
Cordillera
Sierra
Valle
Meseta
Colina
Depresión
Llanura


Punta
Golfo
Archipiélago
Cabo
Acantilado
Bahia
Isla
Estrecho
Peninsula
Cala
Istmo
Playa



Ahora realiza el dibujo en tu cuaderno… Recuerda la instrucción:

Considerando las anteriores definiciones y tus conocimientos, realiza un dibujo de un paisaje (en tu cuaderno de asignatura) donde se observen al menos cuatro de estas formas del relieve.

¡Cerremos la clase!

Aquí identificarás países que se encuentran el los diferentes subcontinentes de América

Realiza las actividades del recurso interactivo en el siguiente link (debes aceptar el uso de cookies):

https://world-geography-games.com/es/paises_america.html

¡Cerremos la clase! ¿Qué elemento del paisaje representa la siguiente imagen?

a) Cordillera.
b) Llanura.
c) Meseta.
d) Montaña.

Actividad de forma oral

¡Cerremos la clase! ¿Qué elemento del paisaje representa la siguiente imagen?

a) Cordillera.
b) Llanura.
c) Península.
d) Isla.

Actividad de forma oral

¡Cerremos la clase! ¿Qué subcontinente de América se presenta en la imagen?

a) América del Sur.

b) América del Norte.

c) América Central.

d) Ninguna de las anteriores.

Actividad de forma oral

¡Cerremos la clase! ¿Qué subcontinente de América se presenta en la imagen?

a) América del Sur.

b) América del Norte.

c) América Central.

d) Ninguna de las anteriores.

Actividad de forma oral

¡Cerremos la clase! ¿Qué elemento del paisaje representa la siguiente imagen?

a) Cordillera.
b) Llanura.
c) Meseta.
d) Montaña.

Actividad de forma oral

Revisa la ruta de aprendizaje… ¿Qué aprendiste hoy? ¿Cómo lo aprendiste? ¿Lograste el objetivo?

- Observar video.
- Escribir subcontinentes de América.
- Leer y comprender características de los subcontinentes de América.
- Actividad en el texto escolar.
- Leer y comprender tipos de relieves geográficos presentes en América.
- Dibujar relieves geográficos en el cuaderno.
- Evaluar lo aprendido.

Cuéntale a tu apoderado qué aprendiste