Semana 10

Historia, Geografía y Cs. Sociales

Colegio Aurora de Chile
CORMUN RANCAGUA

Profesoras:

Natalia Aquevegue Aguayo
Vanesa Laiño Flores

1°B
Colegio Aurora de Chile

¡HOLA QUERIDOS ESTUDIANTES Y APODERADOS!

ESTA SEMANA ¡SEGUIREMOS APRENDIENDO!

POR FAVOR, SEGUIR CON ESE MARAVILLOSO ENTUSIASMO Y ESFUERZO.

NO OLVIDEN PREGUNTAR ANTE CUALQUIER DUDA.

LOS EXTRAÑAMOS Y QUEREMOS MUCHO.

Colegio Aurora de Chile
CORMUN RANCAGUA

¿QUÉ NECESITAS PARA DESARROLLAR ESTA CLASE?

LO QUE TENGAS EN CASA...

COMPUTADORA

TABLET

CELULAR

ESENCIAL

LÁPIZ DE MINA

LÁPIZ ROJO PARA MAYÚSCULAS

GOMA DE BORRAR

CUADERNO DE ASIGNATURA

TEXTO ESCOLAR

UN LUGAR CÓMODO PARA ESTUDIAR

ENSEÑANZA CENTRADA EN LA CALIDAD, AMOR Y DISCIPLINA

Observa el siguiente video en Youtube

https://www.youtube.com/watch?v=UhtNgQKNw8Q

Objetivo de la clase

Identificar Chile en el mapa por medio de diversas actividades.

Ruta de aprendizaje



Observar y Escuchar un video

Comprender información relevante sobre Chile en el mapa

Evaluar a través de preguntas

¡Estudiar y aprender!

CHILE: ENTRE EL MAR Y LA CORDILLERA

Chile se encuentra en América del Sur, entre el océano Pacífico y la cordillera de los Andes.

También entre el límite con Perú y el polo sur. Además, Chile tiene territorio en el continente antártico y en el continente de Oceanía, donde se encuentra Isla de Pascua.

A diferencia del plano, un mapa es un dibujo que representa un espacio más grande como una región, un país o un continente.

¡Imaginemos!

Si **Chile** fuera una casa, **América del Sur sería el barrio donde está**; y el **mundo sería la ciudad,** que contiene muchos barrios.

Si **Chile** fuera una casa, cada habitación sería una de las **16 regiones chilenas**.

¡Estudiar y aprender!

¡Estudiar y aprender!

Chile y sus regiones

Chile tiene 16 regiones
Es largo y angosto

Esta es la región en la que vives

Recreo cerebral

¿Con qué países o lugares limita Chile?

Nort con Perú ⬆

Este con Argentina ➡

Oeste con el Océano Pacífico ⬅

Sur con la Antártica ⬇

¡Estudiar y aprender!

Menciona a tu familia la cordillera que observas en la fotografía

¿Qué cordillera se observa en esta fotografía? Pinta la opción correcta. Reconocer

Cordillera de los Andes

Cordillera de la Costa

NO OLVIDAR

¡Estudiar y aprender!

MI PAÍS: CHILE

CONTINENTE: AMÉRICA DEL SUR

OCÉANO QUE CUBRE CHILE: OCÉANO PACÍFICO

NOMBRE CORDILLERAS QUE CUBREN CHILE: CORDILLERA DE LOS ANDES – CORDILLERA DE LA COSTA.

TU REGIÓN: LIBERTADOS GENERAL BERNARDO O'HIGGINS (SEXTA REGIÓN).

CAPITAL DE CHILE: SANTIAGO.

CAPITAL DE TU REGIÓN: RANCAGUA.

¿EN QUÉ COMUNA VIVES?

Trabajemos con tu texto del estudiante

No imprimir



Con apoyo de la familia

Observa las imágenes y comenta con tu familia las preguntas de la página84, 85,y 86.

No imprimir

Trabajemos con guías

Dirigirse a la plataforma y descargar las guías

No olvides registrarlas o pegarlas en tu cuaderno

Escalera al éxito

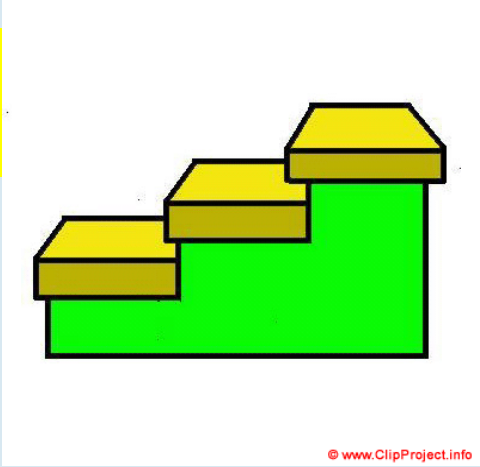

1. ¿CUÁL ES EL OCÉANO QUE BAÑA LAS COSTAS CHILENAS?

A PACÍFICO.

B ATLÁNTICO.

C ÍNDICO.

2. ¿EN QUÉ CORDILLERA DE CHILE PODEMOS ENCONTRAR VOLCANES?

A CORDILLERA DE LA COSTA.

B CORDILLERA DE LOS ANDES.

Responde a tu familia y regístrenlo en el cuaderno.

Autoevaluación

Comenta a tu familia el nivel que más te identifica en cada indicador.

Indicador	☺	😐	☹
Identifico a Chile en un mapamundi.			
Puedo ubicar la cordillera de los Andes en un mapa.			
Reconozco el océano Pacífico en un mapa.			
Identifico mi región en un mapa.			
Reconozco la capital de mi región.			
Reconozco la comuna donde vivo.			

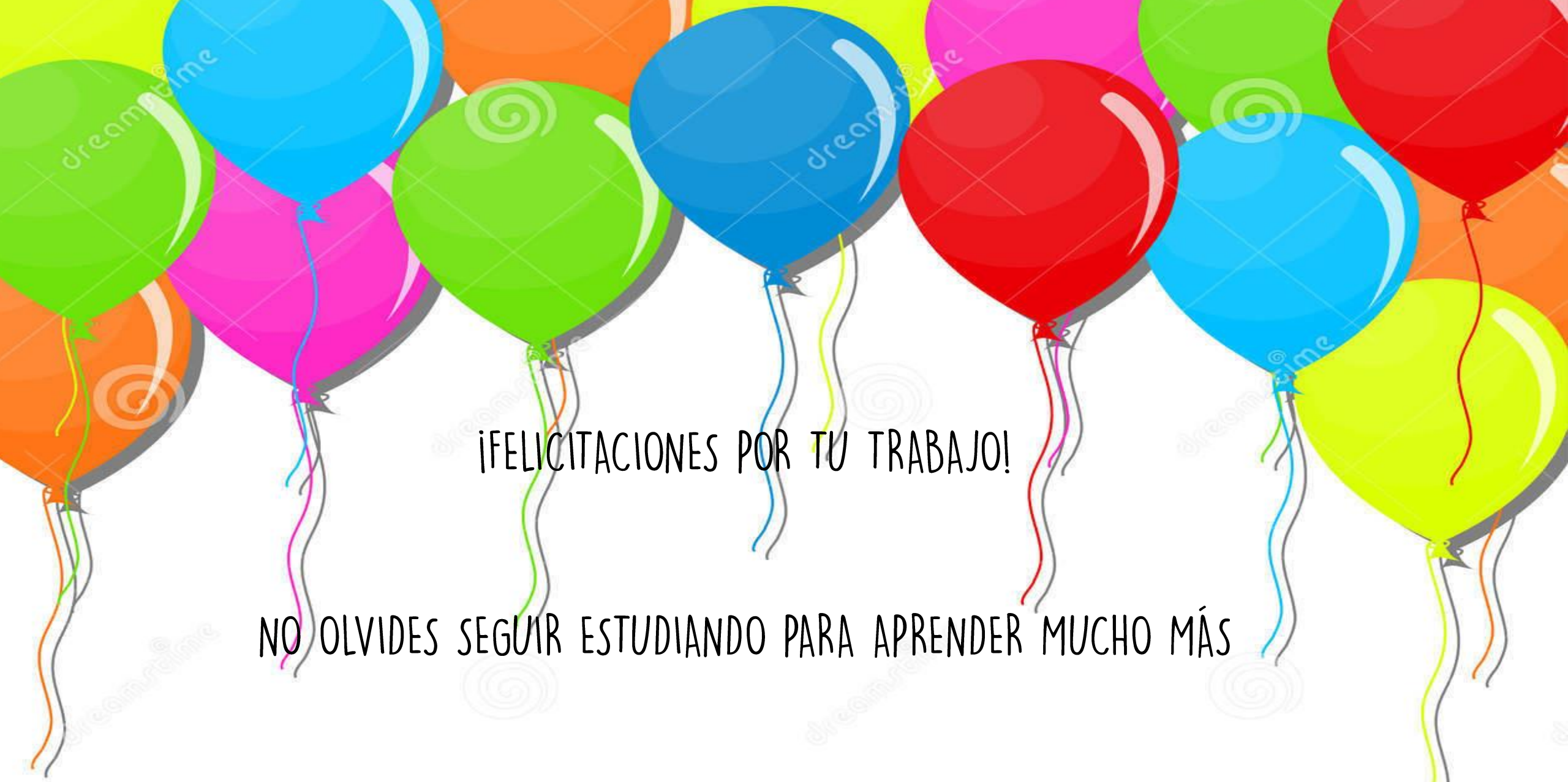

¡FELICITACIONES POR TU TRABAJO!

NO OLVIDES SEGUIR ESTUDIANDO PARA APRENDER MUCHO MÁS

NOS VEMOS LA PRÓXIMA CLASE